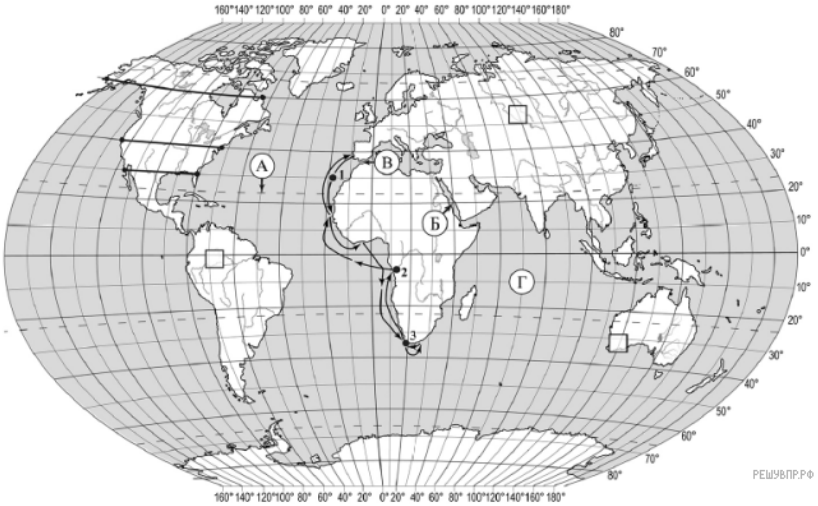

Карта составлена по состоянию на 01.01.2019

Рассмотрите рисунки с изображением климатограмм, построенных по данным метеонаблюдений в разных частях Земли, и выполните задания.

Определите, какому климатическому поясу соответствует каждая климатограмма. Подпишите название климатического пояса под соответствующей климатограммой.

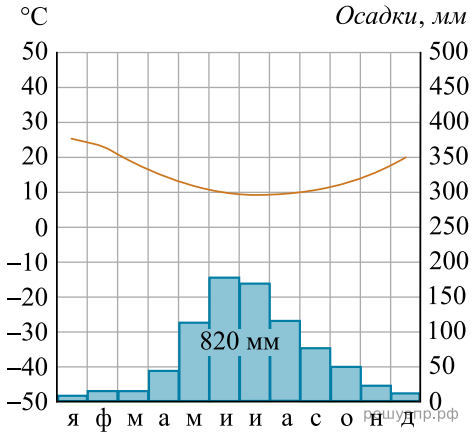

1

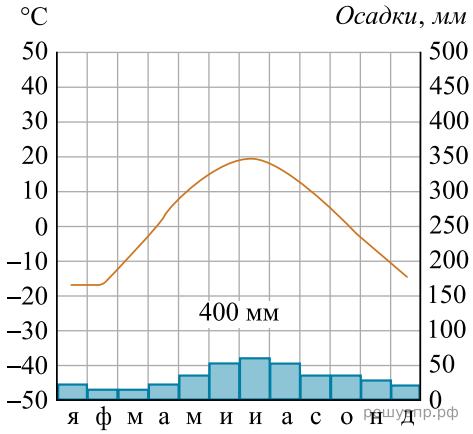

2

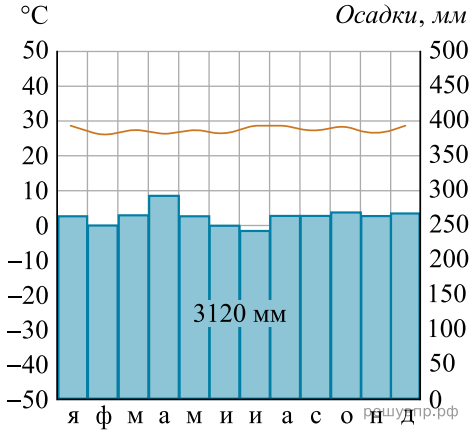
°C
Осадки, мм
50
40
30
20
10
0
−10
−20
−30
−40
−50
500
450
400
350
300
250
200
150
100
50
0
3120 мм
я ф м а м и и а с о н д
решувпр.рф

3