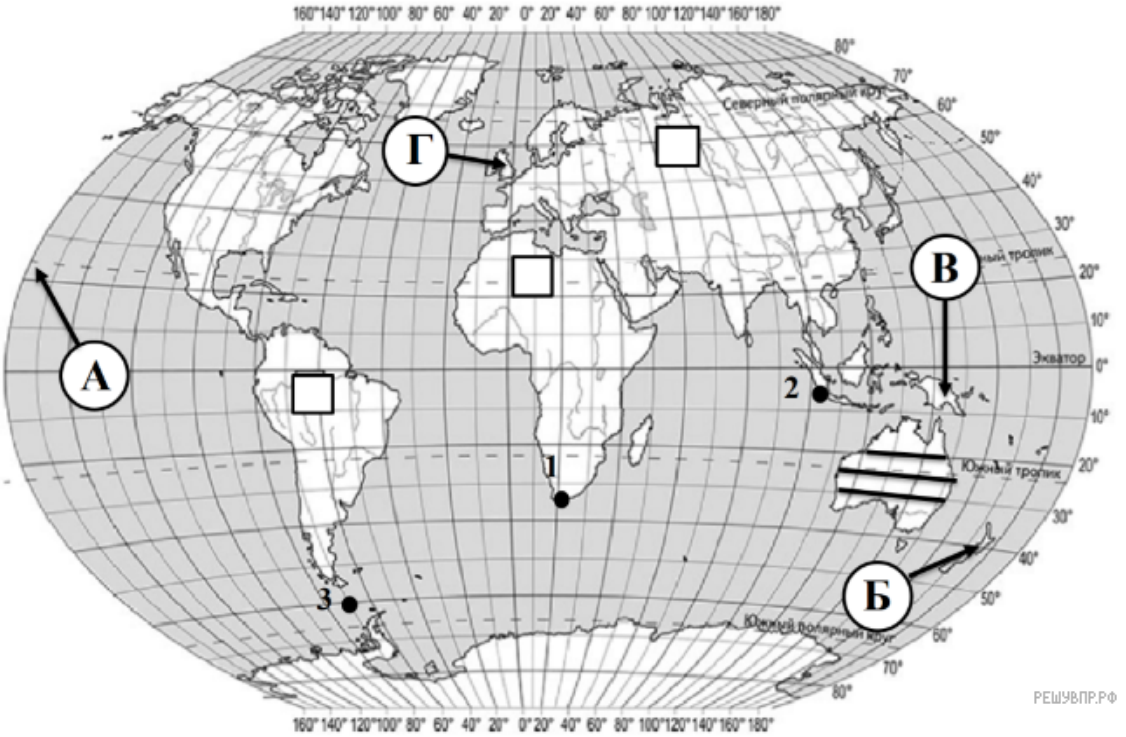

Карта составлена по состоянию на 01.01.2019

На карте мира, изображён маршрут экспедиции одного из путешественников, портреты которых представлены ниже. Рассмотрите карту и портреты путешественников и выполните задания.

Маршрут экспедиции кого из путешественников изображён на карте?

Христофор Колумб

Джеймс Кук



Фернан Магеллан

РЕШУВПР.РФ

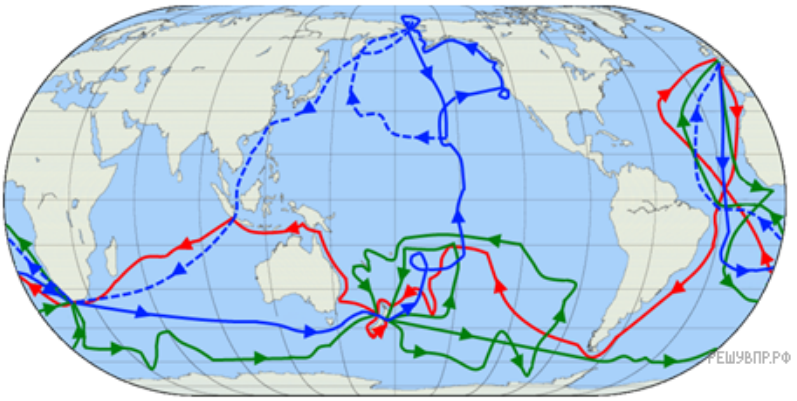

Подпишите на карте современное название материка, который отчаянно искал этот путешественник, но так и не нашёл.